ATIVIDADE DE GEOGRAFIA

Estudante: _____ Data: ___/___/_____

Professor (a): _____ Turma: _____

Escola: _____ Tudo Sala de Aula

PIRÂMIDE ETÁRIA

A pirâmide etária é uma representação gráfica que apresenta dados da população (conjunto de indivíduos que habitam determinada localidade). Ela é baseada em duas variáveis: gênero e idade. As pirâmides etárias servem para avaliar a evolução de uma população. Elas são importantes para a promoção de políticas públicas na área socioeconômica. Enquanto os países subdesenvolvidos apresentam, no geral, pirâmides jovens, os países mais desenvolvidos possuem pirâmides envelhecidas.

Tipos de pirâmide etária

Pirâmide etária jovem: Possui a base bastante larga, indicando uma elevada taxa de natalidade e que a maior parte da população local é jovem. Já o topo dessa pirâmide etária é bastante estreito, uma vez que mostra o baixo percentual de idosos na sua população e a restrita expectativa de vida local. Esse tipo de pirâmide é típico de países subdesenvolvidos que possuem uma população muito jovem.

Pirâmide etária adulta: Essa representação gráfica tem a base e o topo um pouco mais estreitos, pois seu corpo é mais alargado, indicando um perfil populacional em processo de transição demográfica. Assim, verifica-se a diminuição da taxa de natalidade, o aumento da taxa de longevidade e o elevado percentual de população adulta local. Esse tipo de pirâmide é típico de países emergentes ou que estão em desenvolvimento.

Pirâmide etária envelhecida: Essa representação gráfica mostra uma base mais estreita, que indica que há uma baixa taxa de natalidade local. Já o topo é mais largo, resultado da expansão da longevidade e, consequentemente, do aumento do percentual de idosos na população. Esse tipo de pirâmide é típico de países desenvolvidos que já passaram pelo processo de transição demográfica e possuem uma população bastante envelhecida.

Pirâmide etária rejuvenescida: Essa representação gráfica apresenta uma base mais alargada, fruto do crescimento do percentual de jovens na população local e, ainda, um topo bem alargado, em razão da elevada expectativa de vida dessa população. Esse tipo de pirâmide é típico de países mais ricos, especialmente os desenvolvidos, que aplicaram políticas de incentivo à natalidade e receberam grande fluxo de imigrantes em idade ativa.

Gráfico de pirâmide etária

O gráfico das pirâmides etárias é formado por duas variáveis: gênero e idade. As barras horizontais desse gráfico mostram a quantidade de população absoluta por meio do gênero. Essas barras são cortadas por uma faixa vertical, que indica a idade desses grupos populacionais, respeitando justamente a divisão por gênero. Assim, o gráfico das pirâmides etárias, tradicionalmente apresentado em um formato piramidal, representa de forma concisa o perfil de uma população.

mundoeducacao.uol.com.br/geografia/piramide-etaria.htm
Adaptado por Tudo Sala de Aula

Atividade_____

1. O que é uma pirâmide etária e quais informações ela apresenta?

_____

_____

_____

2. Identifique as faixas etárias das pirâmides abaixo.

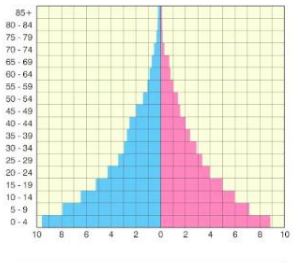

_____

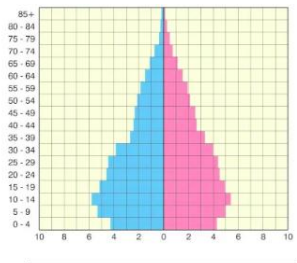

_____

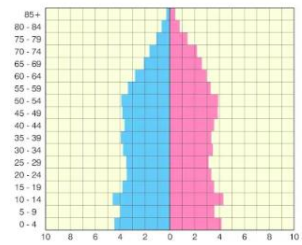

_____

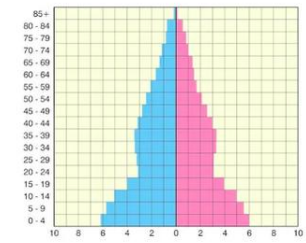

_____

3. Complete as lacunas abaixo com as informações adequadas.

a) A base da pirâmide representa a população _____.

b) A parte central representa a população _____.

c) O topo representa a população _____.

4. Com base nos gráficos da questão 3, indique qual deles é de um país desenvolvido e justifique.

_____
_____
_____

5. O que uma base estreita pode indicar sobre o número de nascimentos de uma população?

_____
_____

6. Veja com atenção a pirâmide etária abaixo.

valor.globo.com/brasil/noticia/2024/08/22/confira-a-nova-piramide-etaria-da-populacao-brasileira-e-entenda-o-que-ela-significa.ghtml

Observe as pirâmides etárias de 2023 e 2070. Em seguida, marque V para as sentenças verdadeiras e F para as falsas.

( ) Em 2023, as faixas mais jovens apresentam maior participação na população do que as faixas mais idosas.

( ) A base mais estreita da pirâmide de 2070 indica uma possível diminuição do número de nascimentos.

( ) Em 2070, a população jovem deverá ser mais numerosa do que a população adulta e idosa.

( ) O aumento da parte superior da pirâmide de 2070 indica um processo de envelhecimento da população.

( ) As pirâmides de 2023 e 2070 possuem formatos semelhantes e não apresentam mudanças importantes.

( ) As mudanças previstas para 2070 podem aumentar a necessidade de serviços de saúde e assistência destinados às pessoas idosas.

7. Se a quantidade de idosos de uma população aumentar, quais serviços públicos precisarão receber mais investimentos? Cite dois exemplos.

_____
_____

8. Veja com atenção o infográfico abaixo.

Abaixo, ilustre como seria a pirâmide de 1960 e a de 2020.

1960	2020

9. Uma população apresenta grande quantidade de adultos, baixa proporção de jovens e crescimento do número de idosos. Abaixo, assinale a alternativa que reflete uma consequência dessa tendência.

a) Menor número de trabalhadores disponíveis para substituir aqueles que se aposentam.

b) Redução da necessidade de políticas públicas voltadas à população de modo geral.

c) Crescimento da mão de obra causado pelo aumento da população idosa.

d) Diminuição da expectativa de vida.

10. Por que a pirâmide etária é importante para o planejamento de serviços de saúde e educação? Justifique sua resposta.

_____
_____
_____
_____
_____
_____
_____
_____

Apoio pedagógico para este material

Tudo Sala de Aula

Para acessar o **gabarito**, o **planejamento** e as **demais orientações,** escaneie o QR Code **ou** clique no botão ao lado. Ao abrir, role a página para baixo.

CLIQUE AQUI

Mais opções de materiais e suportes gratuitos para professores:

Acesse nosso **site** e encontre milhares de atividades gratuitas para enriquecer suas aulas.	Entre em grupos de **WhatsApp** e fique por dentro das novidades e lançamentos.	Acesse o nosso **Instagram** e acompanhe conteúdos, dicas e novidades para professores.
ACESSE	ENTRE	SIGA

© Tudo Sala de Aula – Todos os direitos reservados

Este material é protegido pela legislação de direitos autorais e destina-se exclusivamente ao uso pedagógico em sala de aula ou em casa. É permitida a utilização e impressão para fins educacionais, sendo proibida a reprodução, comercialização, distribuição, publicação em livros ou disponibilização deste material, integral ou parcialmente, em sites, redes sociais, plataformas ou outros meios, sem autorização prévia do Tudo Sala de Aula.