ATIVIDADE DE MATEMÁTICA

Estudante: _____ Data: ___/___/_____

Professor (a): _____ Turma: _____

Escola: _____ Tudo Sala de Aula

1. Dona Maria comprou uma dúzia de laranjas na feira para fazer suco. Ela decidiu usar apenas a terça parte das laranjas para o suco do almoço e guardar o restante. Contorne a terça parte do grupo de laranjas abaixo que ela utilizará no almoço:

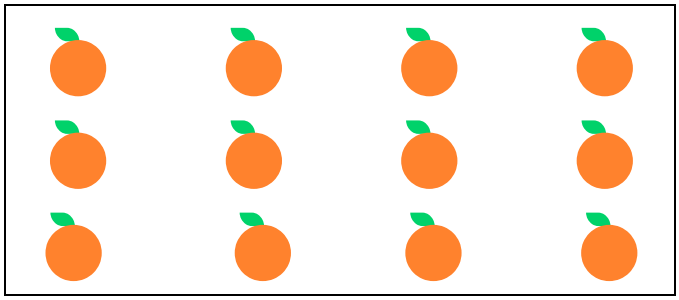

2. No canil da cidade, há 18 cachorrinhos esperando por adoção. No sábado pela manhã, a terça parte deles foi adotada por uma família.

Quantos cachorrinhos foram adotados no sábado?

3. A turma do 2º ano está criando a bandeira da "Gincana da Amizade". A regra é que a bandeira deve ser dividida em 3 partes do mesmo tamanho, e cada parte deve ter uma cor diferente. Trace duas linhas verticais na figura abaixo para dividi-la em 3 partes iguais e depois pinte com cores diferentes.

4. Observe o diálogo entre dois amigos.

Quantas bolinhas de gude João possui?

a) 6
b) 8
c) 12
d) 24

5. Depois de fazer as compras, Sarah decidiu organizar as frutas, separando a terça parte de cada tipo. Complete seguindo o exemplo.

	
Total: _____15_____ Terça parte:_____5_____	Total: _____ Terça parte:_____
Total: _____ Terça parte:_____	Total: _____ Terça parte:_____
Total: _____ Terça parte:_____	Total: _____ Terça parte:_____

6. Lucas e seus dois amigos, foram à pizzaria. Eles pediram uma pizza grande e querem dividi-la em 3 partes iguais para que ninguém coma mais do que o outro. Observe a pizza abaixo, em seguida, desenhe três linhas para dividi-la em 3 partes do mesmo tamanho.

7. O time de Caio possui 27 jogadores. Desses, a terça parte precisará ficar no banco de reserva.



Quantos jogadores ficará no banco de reserva, nesse jogo?

8. Ligue cada coleção à sua terça parte correspondente:

6 balões	15 lápis	12 balas	3 Cupcake

4	1	2	5

9. Rafael recebeu R$ 12,00 de presente.

Bernardo, por ser o mais novo, ganhou a terça parte desse valor. Quanto Bernardo recebeu?
a) R$3,00.
b) R$4,00.
c) R$6,00.
d) R$12,00.

10. Vovó Benta assou 21 cupcakes para o aniversário do seu neto. Ela quer colocar a terça parte dessa quantidade em uma bandeja especial para os parabéns.

Desenhe somente a terça parte desses cupcakes na bandeira abaixo.

11. Caio tinha R$ 15,00 para comprar materiais escolares. Ele gastou a terça parte desse valor na compra de um caderno.

Quanto custou o caderno?
a) R$ 3,00
b) R$ 5,00
c) R$ 10,00
d) R$ 15,00

12. Marque a alternativa em que o resultado da terça parte está **CORRETO**.
a) A terça parte de 9 é 2.
b) A terça parte de 18 é 5.
c) A terça parte de 24 é 8.
d) A terça parte de 27 é 10.

Apoio pedagógico para este material

Tudo Sala de Aula

Para acessar o **gabarito**, o **planejamento** e as **demais orientações,** escaneie o QR Code **ou** clique no botão ao lado. Ao abrir, role a página para baixo.

CLIQUE AQUI

Mais opções de materiais e suportes gratuitos para professores:

Acesse nosso **site** e encontre milhares de atividades gratuitas para enriquecer suas aulas.	Entre em grupos de **WhatsApp** e fique por dentro das novidades e lançamentos.	Acesse o nosso **Instagram** e acompanhe conteúdos, dicas e novidades para professores.
ACESSE	ENTRE	SIGA

© Tudo Sala de Aula – Todos os direitos reservados

Este material é protegido pela legislação de direitos autorais e destina-se exclusivamente ao uso pedagógico em sala de aula ou em casa. É permitida a utilização e impressão para fins educacionais, sendo proibida a reprodução, comercialização, distribuição, publicação em livros ou disponibilização deste material, integral ou parcialmente, em sites, redes sociais, plataformas ou outros meios, sem autorização prévia do Tudo Sala de Aula.